Установите соответствие между климатограммой климатического пояса (области) и пунктом, отмеченным на кар те Евразии точкой с цифрой:

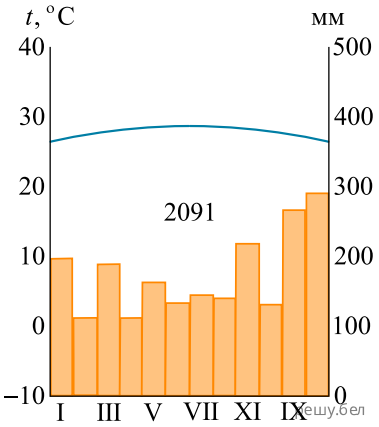

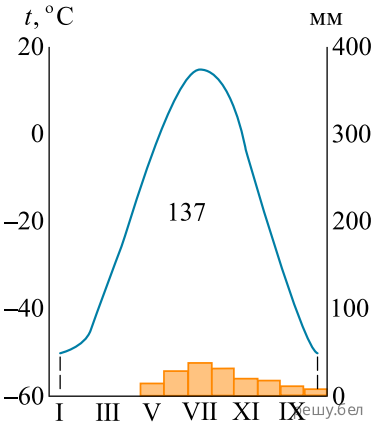

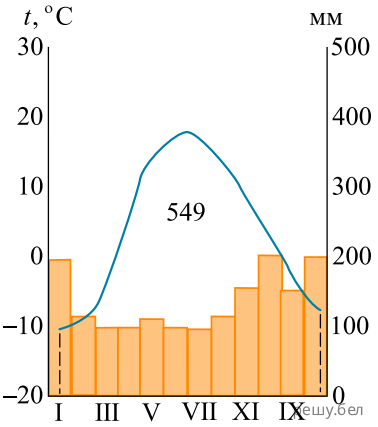

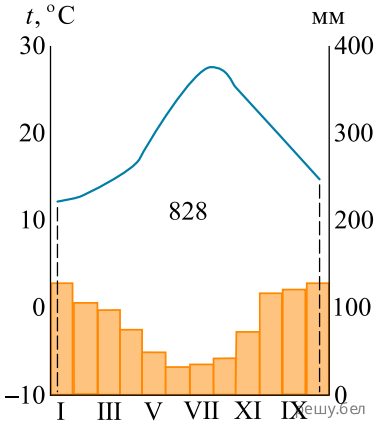

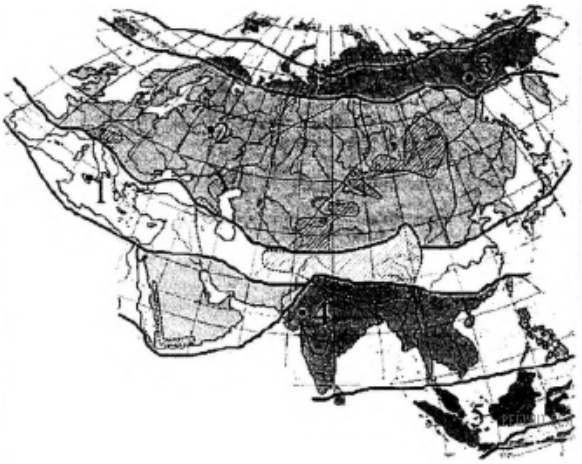

Карта составлена по состоянию на 01.01.2019

Ответ запишите в виде сочетания букв и цифр, соблюдая алфавитную последовательность букв. Помните, что не все данные, отмеченные на карте, могут быть использованы для ответа. Например: А2Б1В4Г5.